月　日

1　8. かけ算の筆算

上 90〜91

名前

1つ10点

学3・Ⅱ

◆ 計算をしましょう。

① 30×3

② 40×2

③ 50×5

④ 90×6

⑤ 60×5

⑥ 200×4

⑦ 200×3

⑧ 700×2

⑨ 300×8

⑩ 600×7

チェック! いくつできたかな? ➡

0こ〜5こ がんばろうね

6こ〜8こ あとちょっと

9こ〜10こ やったね!

月　日

2　8. かけ算の筆算

92～94

名前

1つ10点

学3・Ⅱ

◆　計算をしましょう。

① 32 × 3

② 73 × 2

③ 42 × 3

④ 31 × 7

⑤ 62 × 2

⑥ 46 × 2

⑦ 53 × 5

⑧ 39 × 7

⑨ 62 × 9

⑩ 32 × 6

チェック！ いくつできたかな？

0こ～5こ がんばろうね

6こ～8こ あとちょっと

9こ～10こ やったね！

月　日

3　8. かけ算の筆算

95

名前

1つ10点

学3・Ⅱ

◆　計算をしましょう。

① 39 × 6

② 47 × 9

③ 64 × 8

④ 49 × 7

⑤ 87 × 6

⑥ 57 × 9

⑦ 15 × 8

⑧ 69 × 3

⑨ 45 × 9

⑩ 86 × 7

チェック！ いくつできたかな？

0こ～5こ がんばろうね

6こ～8こ あとちょっと

9こ～10こ やったね！

月　日

4　8. かけ算の筆算

96～98

名前

1つ10点

学3・Ⅱ

◆ 計算をしましょう。

① 214 × 2

② 321 × 3

③ 922 × 4

④ 794 × 2

⑤ 713 × 7

⑥ 986 × 2

⑦ 273 × 6

⑧ 679 × 8

⑨ 169 × 6

⑩ 668 × 3

チェック! いくつできたかな? ➡

0こ～5こ がんばろうね

6こ～8こ あとちょっと

9こ～10こ やったね!

月　日

5　8. かけ算の筆算

99

名前

1つ10点

学3・Ⅱ

◆　計算をしましょう。

① 640 × 2

② 540 × 9

③ 820 × 7

④ 306 × 4

⑤ 604 × 9

⑥ 407 × 6

⑦ 608 × 5

⑧ 700 × 2

⑨ 300 × 8

⑩ 500 × 4

チェック！いくつできたかな？

0こ～5こ　がんばろうね

6こ～8こ　あとちょっと

9こ～10こ　やったね！

月　日

6　8. かけ算の筆算

90〜99

名前

1つ25点

学3・Ⅱ

◆ 問題に答えましょう。

① 1たば300まいの色紙のたばが4たばあります。色紙は，全部で何まいありますか。

（式）

答え（　　）

② 1本53円のえんぴつを6本買います。代金は，全部で何円ですか。

（式）

答え（　　）

③ 1しゅう138mの池のまわりを，3しゅう走りました。全部で，何m走りましたか。

（式）

答え（　　）

④ 花たばを5たば買いました。1たばのねだんは406円です。代金は，全部で何円ですか。

（式）

答え（　　）

チェック！ いくつできたかな？ ➡ 0こ〜1こ がんばろうね　2こ〜3こ あとちょっと　4こ やったね！

月　日

7　9. 大きい数

110～116

名前

1つ10点

学3・Ⅱ

1 次の数を10倍した数をもとめましょう。

① 31　(　　)　② 900　(　　)

2 次の数を100倍した数をもとめましょう。

① 60　(　　)　② 390　(　　)

3 次の数を10でわった数をもとめましょう。

① 40　(　　)　② 580　(　　)

4 □にあてはまる数を書きましょう。

① 1000万を10こ集めた数が，□です。

② 1億は，100万を□倍した数です。

5 □にあてはまる不等号を書きましょう。

① 65220□55920

② 19080□19800

チェック！いくつできたかな？ → 0こ～5こ がんばろうね　6こ～8こ あとちょっと　9こ～10こ やったね！

月　日

8　9. 大きい数

117〜118

名前

1つ20点

学3・Ⅱ

1 計算をしましょう。

① 360000+520000

② 720000−130000

2 筆算(ひっさん)をしましょう。

① 6485
+7213

② 9260
+3764

③ 5762
−3438

チェック! いくつできたかな? ➡

0こ〜2こ がんばろうね

3こ〜4こ あとちょっと

5こ やったね!

月　日

9　10. 長　さ

下10〜11

名前

1つ20点

学3・Ⅱ

1　□にあてはまる数を書きましょう。

① 1km＝□m

② 1060m＝□km□m

2　計算をしましょう。

① 800m＋600m

② 1km700m＋500m

③ 1km－500m

チェック！いくつできたかな？

0こ〜2こ　がんばろうね

3こ〜4こ　あとちょっと

5こ　やったね！

月　日

10　11. 円と球

18～31

名前

1つ20点

学3・Ⅱ

1 次の長さをもとめましょう。

① 半径が2cmの円の直径

（　　）

② 半径が5cmの球の直径

（　　）

③ 直径が14cmの球の半径

（　　）

2 下の図で，次の長さをもとめましょう。

① 小さい円の直径

（　　）

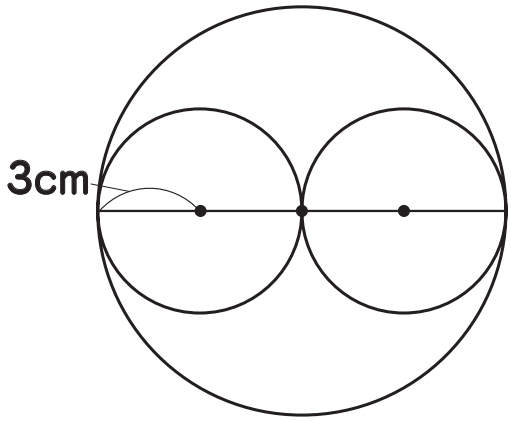

② 大きい円の直径

（　　）

チェック！ いくつできたかな？ ➡

0こ～2こ がんばろうね

3こ～4こ あとちょっと

5こ やったね！

月　日

11　12. 小　数

36～41

名前

1つ10点

学3・Ⅱ

1 □にあてはまる数を書きましょう。

① 3dLと0.4dLで□dL。

② 4dLと□dLで4.7dL。

③ 1.5dLは，0.1dLが□こ分。

④ 0.1dLの26こ分で□dL。

2 □にあてはまる数を書きましょう。

① 1.7は，0.1が□こ集まった数。

② 0.9は，0.1が□こ集まった数。

③ 0.1が3こ集まった数は，□。

④ 0.1が29こ集まった数は，□。

3 □にあてはまる不等号を書きましょう。

① 5□5.2　　② 3.7□2.9

チェック！いくつできたかな？

0こ～5こ がんばろうね

6こ～8こ あとちょっと

9こ～10こ やったね！

月　日

12

12. 小　数

43

名前

1つ10点

学3・Ⅱ

◆　計算をしましょう。

① 2.3 ＋1.4

② 3.2 ＋6.3

③ 2.1 ＋4.4

④ 8.1 ＋1.8

⑤ 6.7 ＋1.8

⑥ 4.6 ＋0.5

⑦ 2.4 ＋0.6

⑧ 5 ＋3.1

⑨ 8.4 ＋1

⑩ 1.2 ＋7

チェック！ いくつできたかな？

0こ～5こ がんばろうね

6こ～8こ あとちょっと

9こ～10こ やったね！

月　日

13 12. 小　数

45

名前

1つ10点

学3・Ⅱ

◆ 計算をしましょう。

① 3.7 − 1.4

② 9.8 − 7.2

③ 4.8 − 1.6

④ 5.1 − 2.9

⑤ 6.2 − 3.5

⑥ 9.2 − 8.7

⑦ 2.4 − 1.9

⑧ 3 − 1.8

⑨ 4 − 3.8

⑩ 2 − 1.1

チェック! いくつできたかな? ➡

0こ〜5こ がんばろうね

6こ〜8こ あとちょっと

9こ〜10こ やったね!

月　日

14　12. 小　数

36〜45

名前

1つ25点

学3・Ⅱ

◆ 問題(もんだい)に答えましょう。

① ジュースを，朝0.5L，夕方0.9L飲(の)みました。合わせて，何L飲みましたか。

(式(しき))

答え（　　）

② 大きいポットには2.8L，小さいポットには0.2Lの水が入っています。合わせて，何Lありますか。

(式)

答え（　　）

③ ハイキングで，2.4kmの道のりを歩きます。これまでに0.7km歩きました。のこりは何kmですか。

(式)

答え（　　）

④ 赤いリボンが5m，青いリボンが1.6mあります。ちがいは何mですか。

(式)

答え（　　）

チェック！ いくつできたかな？ ➡

0こ〜1こ がんばろうね

2こ〜3こ あとちょっと

4こ やったね！

月　日

15　13. 三角形

49～58

名前

1つ25点

学3・Ⅱ

1　次の三角形をかきましょう。

①　3つの辺の長さが，6cm，4cm，4cmの二等辺三角形。

②　1つの辺の長さが，5cmの正三角形。

2　下のように，同じ三角じょうぎを2まいならべると，それぞれ何という三角形ができますか。名前を書きましょう。

①

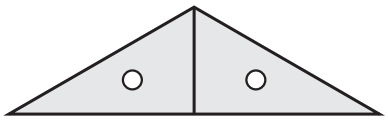

（　　）

②

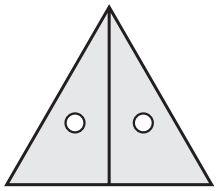

（　　）

チェック！いくつできたかな？

0こ～1こ　がんばろうね

2こ～3こ　あとちょっと

4こ　やったね！